Het Beverwedstrijd

VAKANTIEBOEK

Voor onderweg, in je tent of naast het zwembad!
Met het Bever Vakantieboek beleef je veel lol!
Vergeet niet je kleurpotloden in te pakken!



Wil je nog meer oefenen met Bever? Ga dan naar:
www.beverwedstrijd.nl

Limonade

Janet heeft 37 liter limonade gemaakt.
Ze moet nu alle limonade in flessen doen om het mee te nemen naar haar vrienden. Ze heeft lege flessen van verschillende groottes, maar ze wil er zo min mogelijk mee nemen en ze wil dat alle flessen vol zijn.

Kleur de flessen in die ze zou moeten gebruiken!

Zelf limonade maken? Neem 5 citroenen, een kop suiker en een kop water. Kook het water en roer de suiker erdoor. Zet dit in de koelkast tot het koud is. Pers de citroenen uit boven een zeefje. Doe alles bij elkaar in een fles en doe er koud water bij tot hij vol is. Klaar!

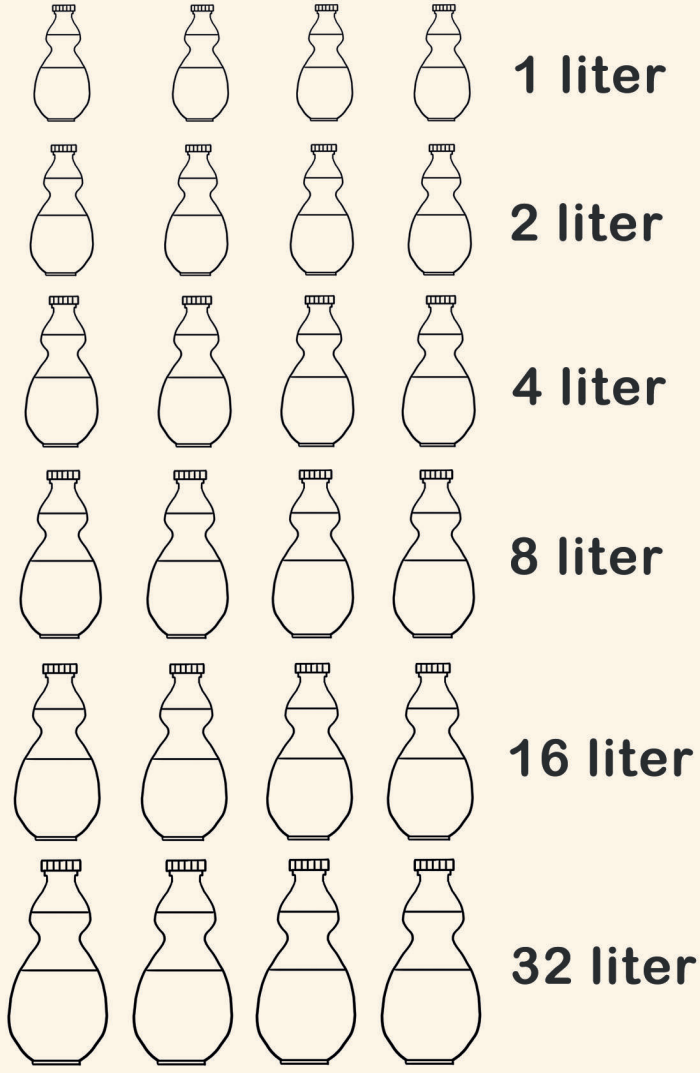



Snoep doolhof

Suzie de robot is geprogrammeerd om zoveel mogelijk snoepjes te verzamelen. Ze doet dit terwijl ze over de tegels heen loopt. Ze begint links onder en moet naar de vlag rechts boven lopen. Ze kan alleen naar rechts of omhoog lopen.

Teken de route die Suzie loopt om zoveel mogelijk snoepjes te verzamelen!

Rivier route

Een rivier loopt vanuit een moeras naar een meer. In het midden van de route ligt een pier. Hiernaast kan je wat takken zien liggen. Je kan vanaf de pier met een stoomboot naar het pretpark aan de mond van de rivier. Op de terugweg stopt de boot bij een plek waar je kan barbequen. Als de boot terug is bij de pier zien mensen aan de linker kant een oude boom in het moeras en een heuvel die tussen de pier en de windmolen ligt.
Waar ligt welke plek? Schrijf de namen op in de lege velden.

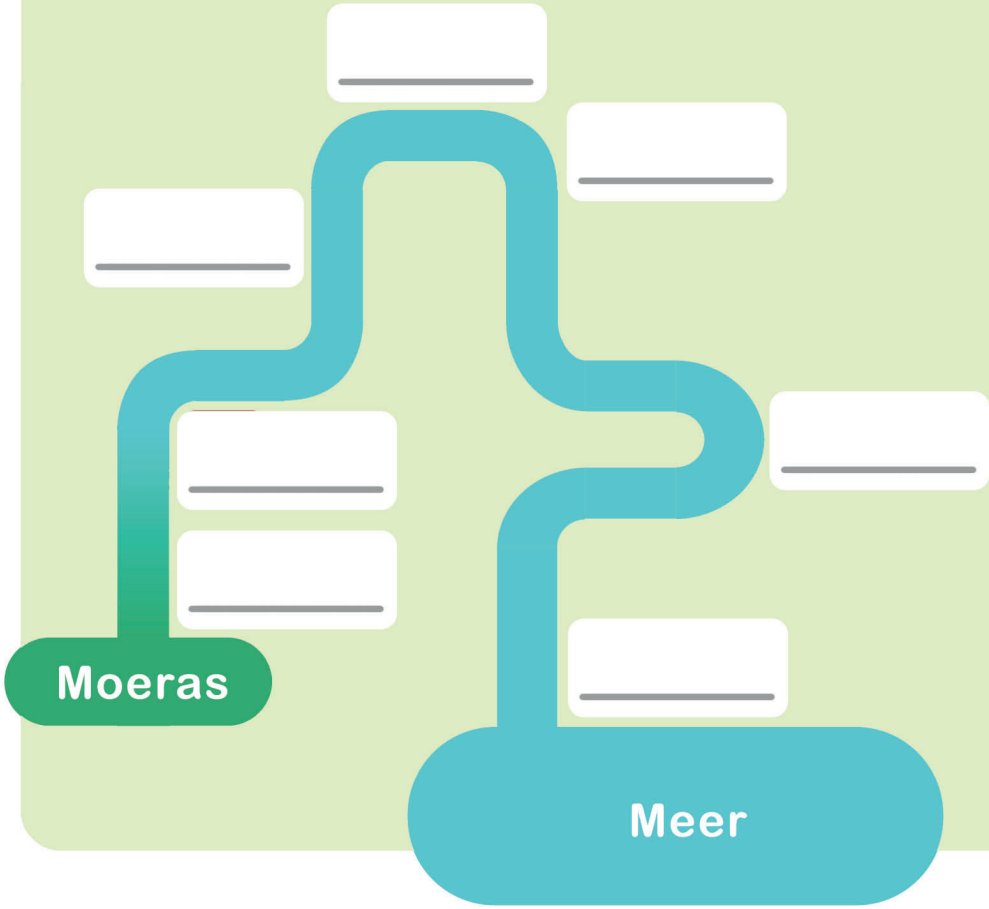

Kaartjes

Bever heeft een speciaal kaartspel.

Als hij kaartjes A en B combineert, krijg je kaartje C.

Hoe ziet kaartje F eruit als hij D en E combineert? Maak de juiste vakjes zwart.

www.beverwedstrijd.nl

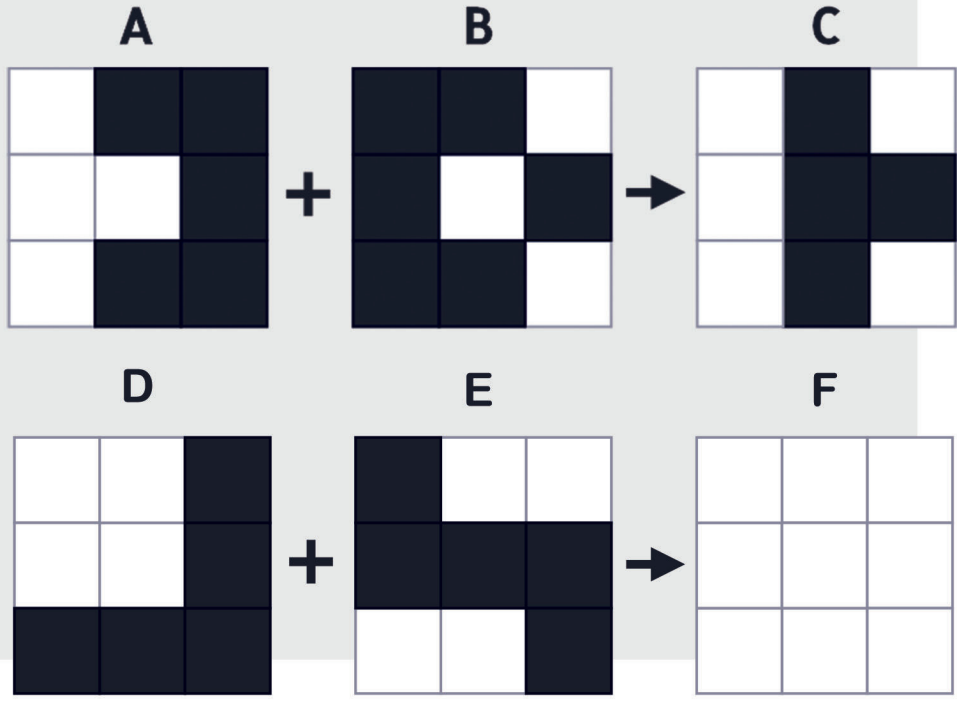

Bever Brillen

Brillen voor bevers zijn speciaal: de bril moet bij de bever zijn of haar gezichtsuitdrukking horen. Hiernaast zie je welke bril bij welke uitdrukking hoort. Hieronder zie je wat bevers zonder bril. Bever wil graag een grapje met ze uithalen. Zorg ervoor dat elke bever een verkeerde bril op heeft!





Vakjes Robot

Milan heeft een robot gemaakt die vakjes leest, de kleur van het vakje veranderd en dan een vakje naar links of naar rechts gaat. Hij volgt dit soort regels:

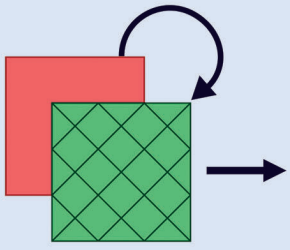

Als je een rood vakje ziet, maak hem dan groen en ga naar rechts.

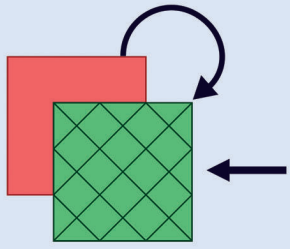

Als je een rood vakje ziet, maak hem dan groen en ga naar links.

De robot begint op het meest linker vakje. Hij leest het vakje, kijk welke regel er bij die kleur hoort en voert die regel uit. Zo gaat hij steeds verder, tot hij geen geldende regel meer kan vinden. Als dit gebeurd stopt hij. De robot krijgt deze lijn aan vakjes en de volgende regels. Hoe ziet de rij met vakjes eruit als de robot stopt? Kleur de vakjes!

www.beverwedstrijd.nl

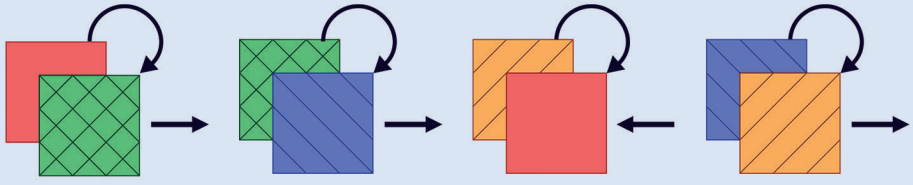

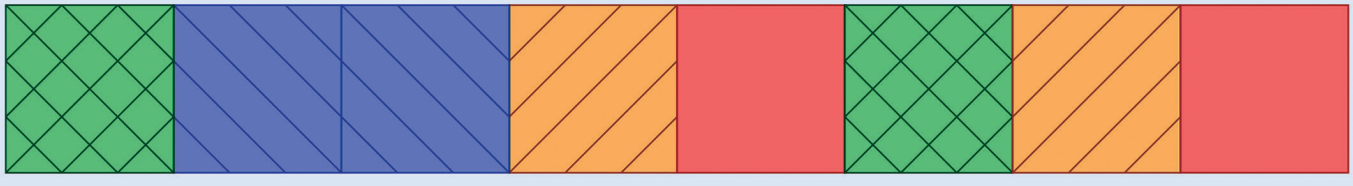

Puzzel kleurplaat!

Los de sommen op en geef de Bever zijn vakantie foto de juiste kleuren! Staat er geen som bij? Dan mag je het zelf verzinnen!

0 = Wit
1 = Grijs
5 = Rood
9 = Licht Blauw
11 = Donkerblauw
12 = Groen
18 = Licht Bruin
21 = Donkerbruin
24 = Geel
31 = Paars



Muis in een buis!

Muis zit bij de ingang van een buizen doolhof. Muis wil graag bij de kaas komen die bij de uitgang van pijp vijf ligt. Hij kan bij elke ingang aan de bovenkant naar binnen gaan. De muis volgt altijd de volgende instructies als hij buizen in gaat:

1. Ga naar beneden tot je bij een afslag komt.
2. Bij de afslag ga je door de verticale buis heen.
3. Begin weer bij nummer een!

Hoe moet de muis lopen om bij de kaas te komen? Teken de route!

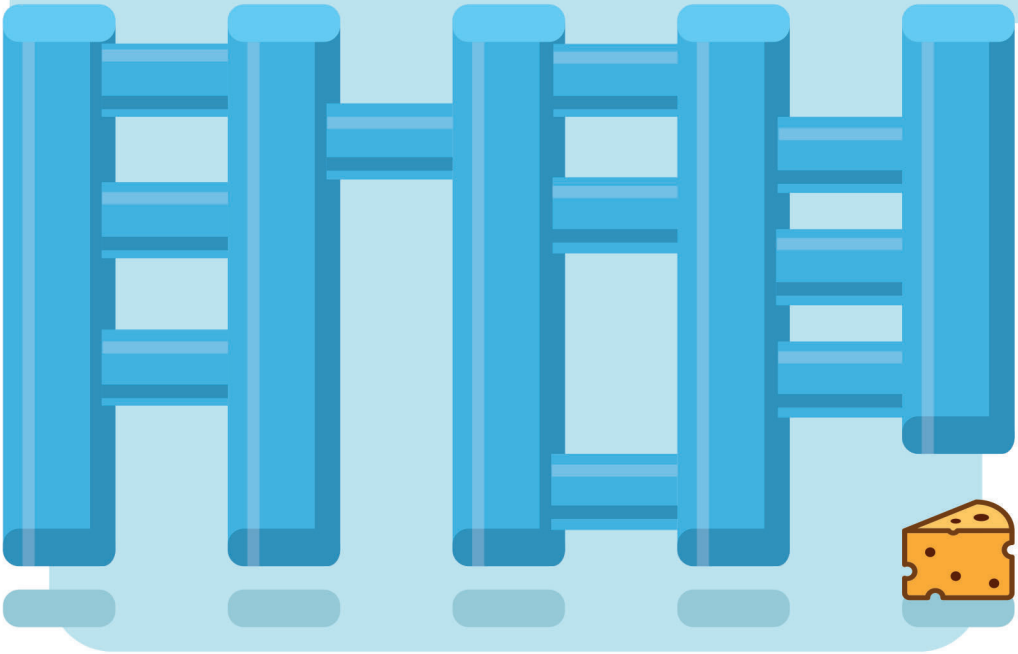

Muizenfeit:

Wist je dat muizen helemaal niet zo gek zijn op kaas? Ze houden meer van zoete dingen! Wel blijken ze dol te zijn op pindakaas. Wie had dat gedacht!

Parkwachter

Jane is de parkwachter van een park rondom de beverschool. Er zijn 27 stukjes pad in het park die allemaal precies 10 meter lang zijn.

Een paar ondeugende bevers spelen soms met boomstammen, maar leggen ze niet terug! Hierdoor blokkeren ze de paden. Elke ochten begint Jane bij de school, controleert elk pad en komt dan weer terug bij de school. Ze wil zo efficient mogelijk zijn en zorgt dat haar wandeling zo kort mogelijk is.

Hoe kort is de kortste route die Jane kan nemen? Omcirkel het juiste antwoord!

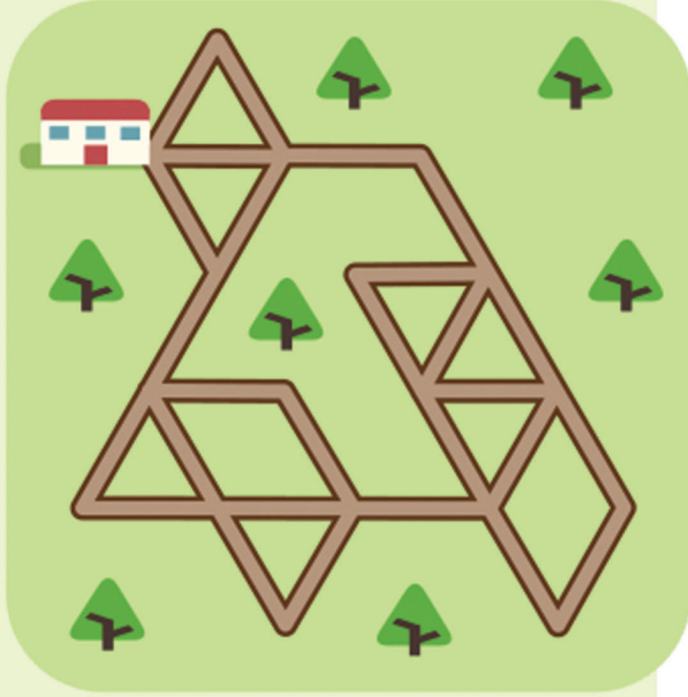

270M

280M

300M

540M

Rechter Hand Regel

Bever weet dat er een ‘rechter hand regel’ bestaat voor doolhoven. “Wanneer je door een doolhof loopt, houdt je je rechter hand altijd langs de muur. Dan kom je vanzelf bij de uitgang.” Helaas werkt deze regel niet altijd! In welke van de volgende doolhoven werkt de regel niet? Bever begint bij het pijltje.

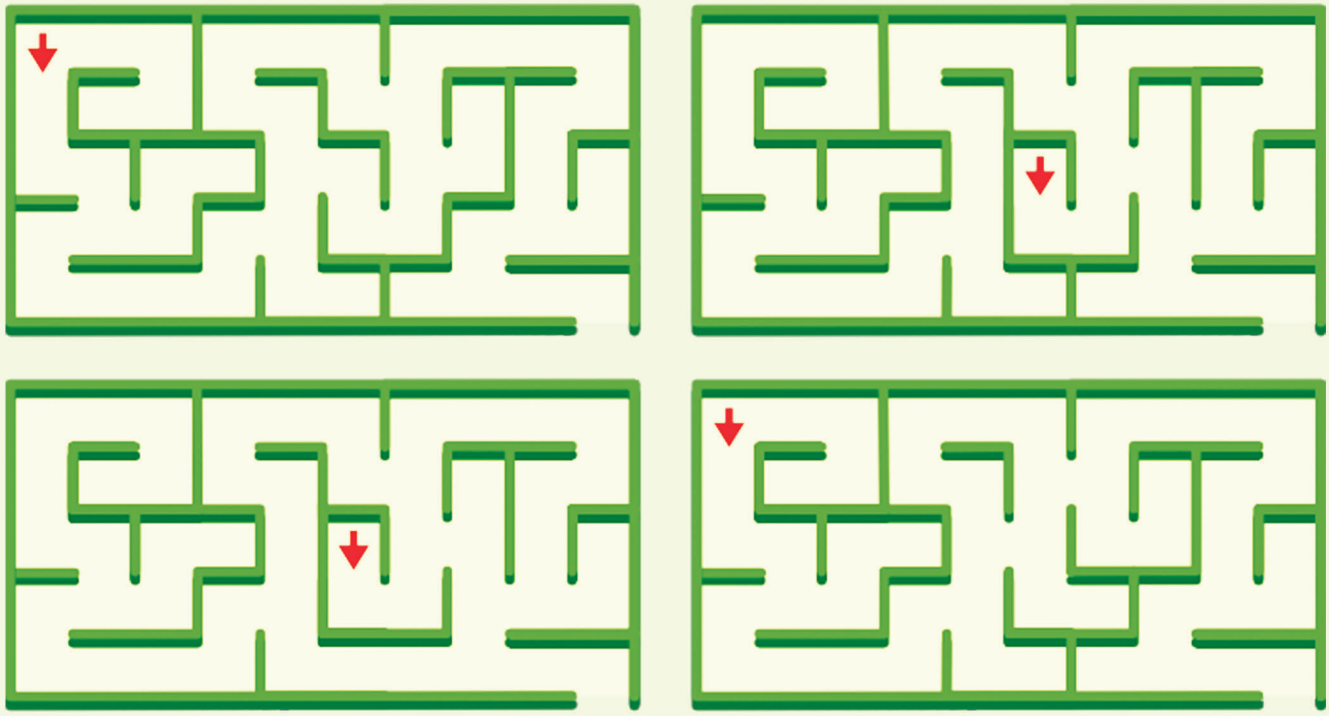

Roodkapje

Op een dag komt Roodkapje de wolf tegen en zegt “gisteren loog ik de hele dag!”. De wolf reageert “Ik ook!”.
We weten dat Roodkapje altijd liegt op maandag, dinsdag en woensdag. De wolf liegt altijd op donderdag, vrijdag en zaterdag. Beiden vertellen op de andere dagen de waarheid. Op welke dag kwamen Roodkapje en de wold elkaar tegen? Kleur de juiste dag in!

- Maandag
- Dinsdag
- Woensdag
- Donderdag
- Vrijdag
- Zaterdag
- Zondag



Zoek de verschillen

Babet en Victor dansen samen de tango, een Argentijnse dans. Hun dans wordt opgenomen door twee mensen, maar er is iets mis met een van de camera's waardoor de beelden anders zijn geworden! Kan jij alle 10 verschillen vinden?

Dans weetje:
Wist je dat de prehistorische mensen ook al dansten? Vaak waren dit groepsdansen om bijvoorbeeld een oogst goed te laten verlopen!



Inkleuren

Het plaatje hieronder moet worden ingekleurd!

Er zijn twee regels:
1. Gebruik zo min mogelijk verschillende kleuren.
2. Stukjes die met de randjes aan elkaar liggen mogen NIET dezelfde kleur hebben.

Je mag zelf kiezen welke kleuren je gebruikt. Kleur het plaatje in terwijl je de regels hierboven volgt!

Alle antwoorden staan op www.beverwedstrijd.nl/vakantieboek